Olimpiada județeană de geografie- proba practică -04 martie 2017
clasa a VIII-a
Földrajz tantárgyverseny- megyei szakasz- gyakorlati próba – 2017. március 04.
VIII. osztály

- În următoarele 9 slide-uri veți observa imagini/fotografii despre fenomene, procese sau elemente geografice. Identificați, după numărul dat fiecărei imagini/fotografie, tipul de fenomen, proces sau element geografic observat și notați răspunsul pe foaia de lucru.(după numărul imaginii-notați răspunsul vostru).

Timp de lucru 10 minute(1minut/slide)

- A következő 9 elektronikus diapozitív fényképein földrajzi jelenségeket, folyamatokat vagy földrajzi elemeket fogtok megfigyelni. Határozzátok meg a fényképeken ábrázolt földrajzi jelenséget, folyamatot vagy földrajzi elemet, és a fénykép száma alapján írjátok le a vizsgalapra a helyes választ!
- Munkaidő: 10 perc(1perc/diapozitív)

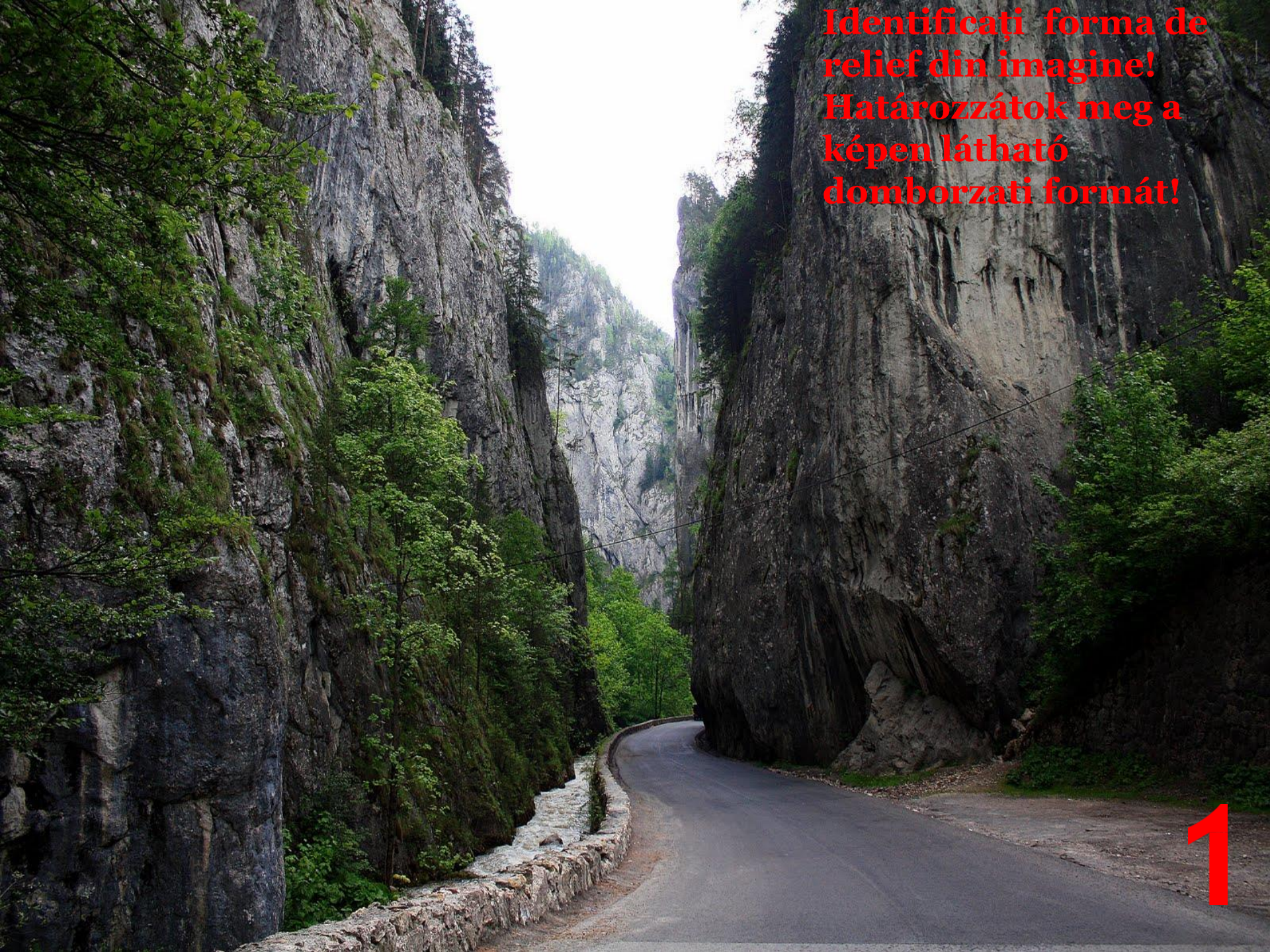
Identificați forma de relief din imagine!
Határozzátok meg a képen látható domborzati formát!
1

Identificați tipul de relief și tipul de vegetație din imagine!

Határozzátok meg a képen látható domborzat és növényzet típusát!



2



Formele de relief din imagine apar în Munții Ciucaș. Identificați forma de relief din imagine, respectiv un agent moderator al reliefului, care a contribuit la geneza acestor forme !

A képen látható domborzati formák a Csukás - hegységben találhatók. Határozzátok meg a képen látható domborzati formát, valamint egy domborzatalakító tényezőt, amely hozzájárult ezen formák kialakulásához!

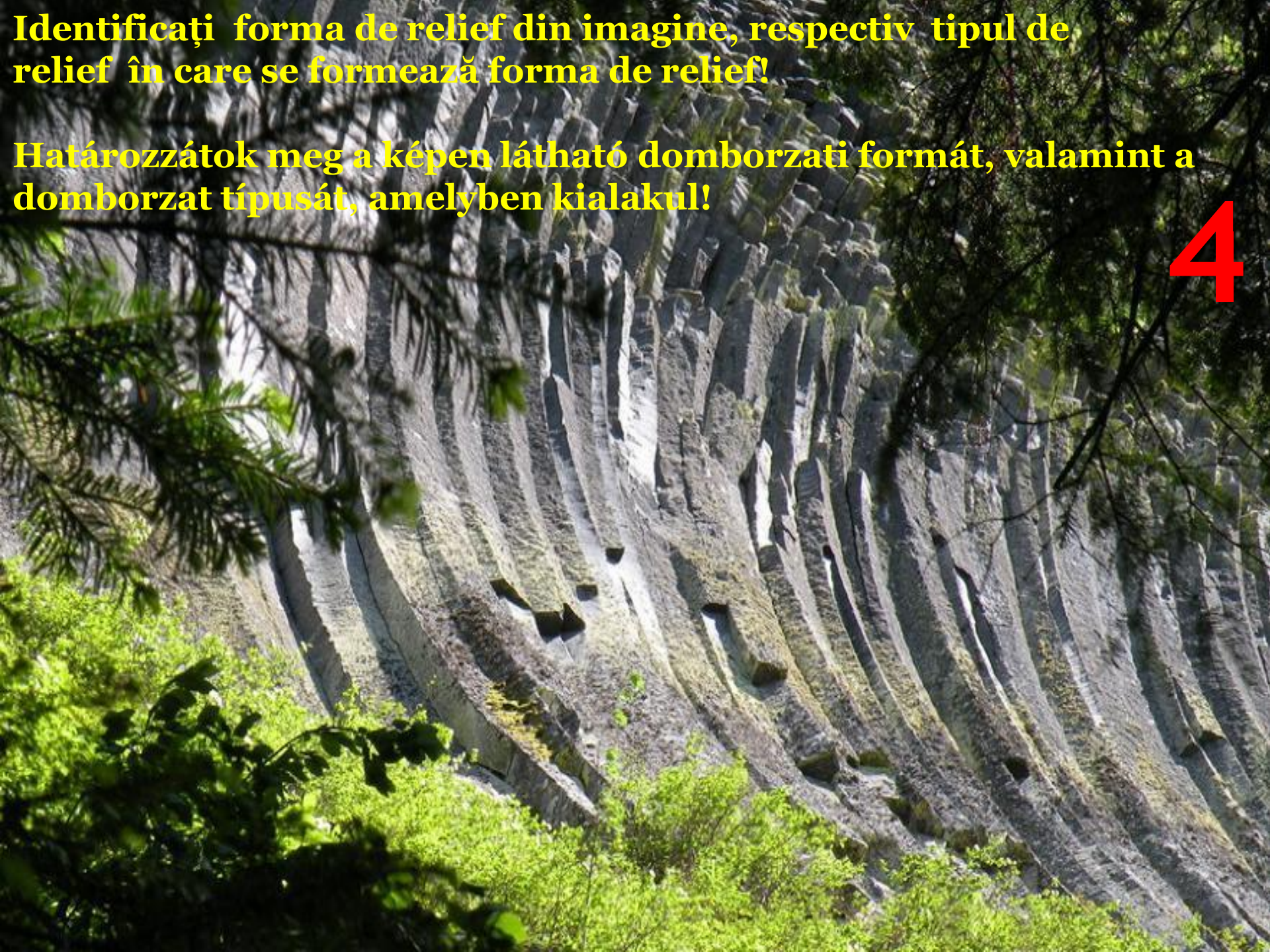

Identificați forma de relief din imagine, respectiv tipul de relief în care se formează forma de relief!

Határozzátok meg a képen látható domborzati formát, valamint a domborzat típusát, amelyben kialakul!

4

Identificaţi forma de relief de la punctul **5.a**, tipul şi numele unităţii hidrografice de la punctul **5.b** respectiv tipul de climat caracteristic peisajului din imagine!

Határozzátok meg a képen látható, **5.a** ponttal jelölt domborzati formát, az **5.b** ponttal jelölt vízrajzi elem típusát és nevét, valamint a képen látható táj éghajlat típusát!

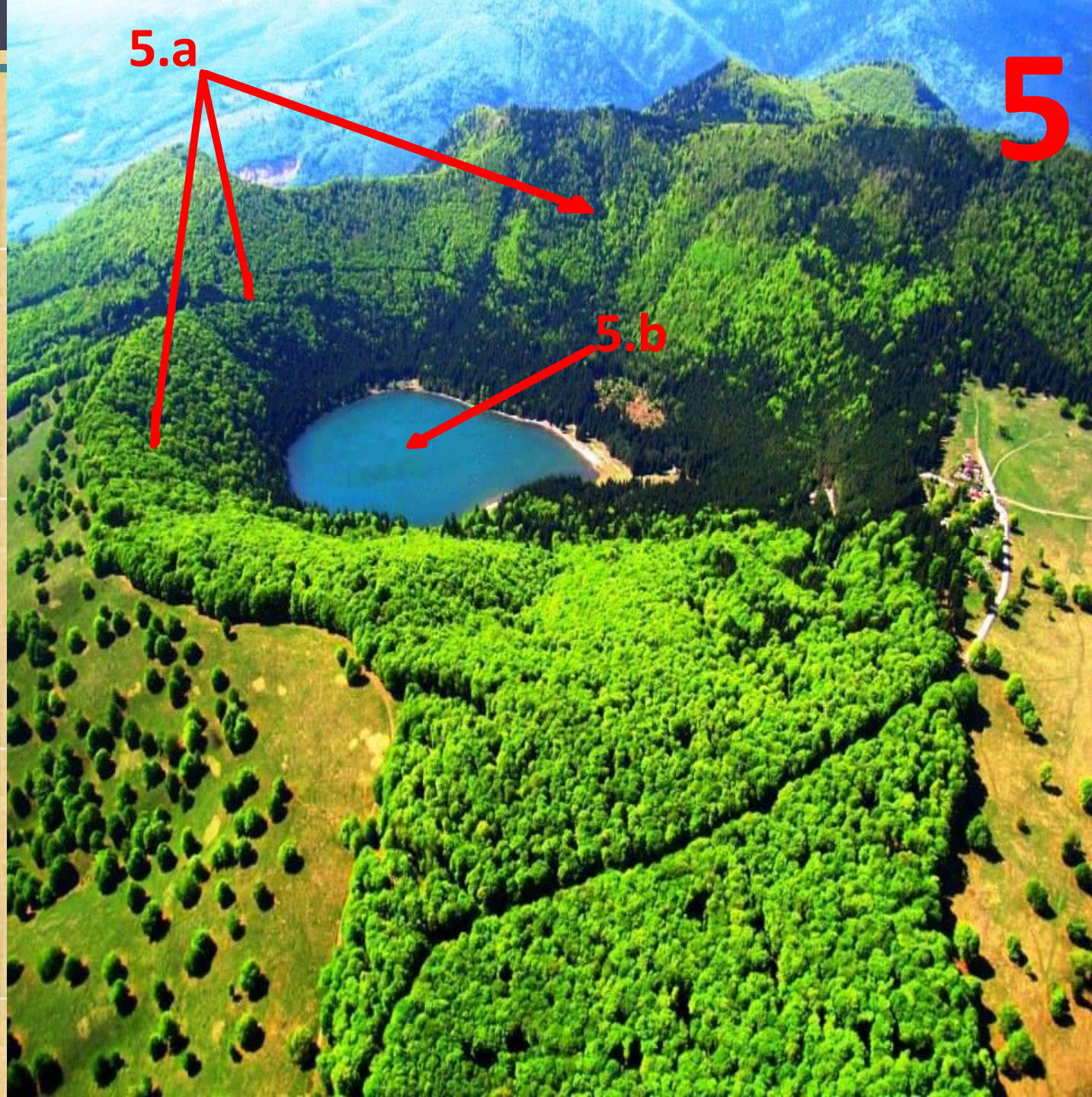

Identificaţi tipul şi numele unităţii hidrografice din imagine!
Határozzátok meg a képen látható vízrajzi elem típusát és nevét !

6



Elementul hidrografic din imagine se află pe râul Argeș. Identificați numele și tipul unității hidrografice din imagine!

A képen látható vízrajzi elem az Argeș folyón található. Határozzátok meg a képen látható vízrajzi elem nevét és típusát!



7

Identificați câte un etaj de vegetație din imaginile marcate cu punctele 8a și 8 b și 8 c!

Határozzátok meg a 8a, 8b és 8c pontokkal jelölt képeken megjelenő egy-egy növényzeti emeletet!







În imaginea de satelit vedem o parte a unității geografice a Podișului Dobrogei. Identificați numele unității hidrografice marcate cu 9.a, respectiv tipul de lac.

A műhold képen a Dobrudzsai - fennsík egy része látható. Határozzátok meg a 9.a -val jelölt vízrajzi egység nevét , valamint a tó típusát!

